الأعداد و مجموعات الأعداد (١)								
١	أكتب بالصيغة القياسية العدد الذي يمثله هذا النموذج : 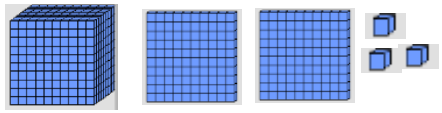							
	أ	١٣٠٢	ب	١٠٢٣	جـ	١٢٠٣	د	١٢٣٠
٢	يفكر عمر في عدد رقم آحاده ٢ و رقم مئاته ثلاثة أمثال رقم آحاده و رقم عشراته صفر . فما هو هذا العدد ؟							
	أ	٦٠٢	ب	٩٠٢	جـ	٢٠٦	د	٢٠٩
٣	ما أكبر مبلغ من المال يمكن تكوينه من الأرقام ٣ ، ٢ ، ٩، ٧ بدون تكرار ؟							
	أ	٧٩٣٢	ب	٩٧٣٢	جـ	٧٣٢٩	د	٢٧٩٣
٤	الشيك هو أمر بدفع مبلغ من النقود ويكتب بالأرقام و الكلمات فإذا كان هناك شيك قيمته ١ + ٦٠ + ٧٠٠٠ ، فما هي الصيغة اللفظية لقيمة هذا الشيك ؟							
	أ	سبعة الاف و واحد و ستون	ب	سبعة الاف و ست مئة و عشرة	جـ	سبعة الاف و مئة و ستون	د	سبعة الاف و ستة عشر
٥	أحرز جاسم ٦٩٢١ نقطة ، و سعيد ٦٠٣٨ نقطة ، و علي ٦٢١٥ نقطة . ما ترتيبهم من الأصغر إلى الأكبر ؟							
	أ	جاسم ، سعيد، علي	ب	سعيد ، جاسم ، علي	جـ	علي، سعيد ، جاسم	د	سعيد، علي، جاسم

تدريبات نافس (رياضيات) الصف الثالث الابتدائي

اسم الطالبة : .....

ظللي الإجابة الصحيحة :

١	أ	ب	جـ	د
٢	أ	ب	جـ	د
٣	أ	ب	جـ	د
٤	أ	ب	جـ	د
٥	أ	ب	جـ	د

معلمة المادة :

ساره حمدان الشهري

الأعداد و مجموعات الأعداد (٢)

١	الكسر الذي يمثله الجزء المظلل في الشكل المجاور : 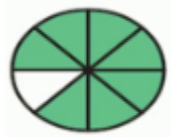							
	أ	$\frac{٢}{٩}$	ب	$\frac{١}{٥}$	جـ	$\frac{٧}{٨}$	د	$\frac{١}{٨}$
٢	ما الكسر الذي يمثل البالونات الحمراء من مجموعة البالونات التالية : 							
	أ	$\frac{٥}{٨}$	ب	$\frac{١}{٥}$	جـ	$\frac{٣}{٨}$	د	$\frac{١}{٩}$
٣	ما الكسر الذي يمثل النقطة ن على خط الأعداد 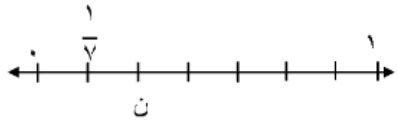							
	أ	$\frac{١}{٦}$	ب	$\frac{٢}{٥}$	جـ	$\frac{٣}{٧}$	د	$\frac{٢}{٧}$
٤	ما الكسر الذي يقع بين $\frac{٥}{٨}$ و $\frac{٧}{٨}$:							
	أ	$\frac{٦}{٨}$	ب	$\frac{٤}{٨}$	جـ	$\frac{٣}{٨}$	د	$\frac{١}{٨}$
٥	ما العدد الذي يجعل العلاقة التالية صحيحة : $\frac{٣}{١٠} < \frac{\quad}{١٠}$							
	أ	٢	ب	٤	جـ	٨	د	٩

تدريبات نافس (رياضيات) الصف الثالث الابتدائي

اسم الطالبة : .....

ظللي الإجابة الصحيحة :

١	أ	ب	جـ	د
٢	أ	ب	جـ	د
٣	أ	ب	جـ	د
٤	أ	ب	جـ	د
٥	أ	ب	جـ	د

معلمة المادة :

تدريبات نافس (رياضيات) الصف الثالث الابتدائي

اسم الطالبة : .....

ظللي الإجابة الصحيحة :

١								
٢								
٣								
٤								
٥								

معلمة المادة :

ساره حمدان الشهري

العمليات على الأعداد و الحس العددي (١)								
١	إذا ادخر أحمد ٥٣٦ ريالًا ، و قد ادخر في الشهر الماضي ٢١٥ ريالًا . فكم مجموع المبلغ الذي أصبح معه ؟							
	أ	٧٥١	ب	٣٢١	جـ	٧٤١	د	٣٢٠
٢	اختر العملية المناسبة لتصبح الجملة العددية صحيحة : ٥١ ◯ ٣ = ٦ × ٩							
	أ	+	ب	-	جـ	×	د	÷
٣	لدى صاحب محل ٦٠٠ صندوق من البسكويت . باع منها في الأسبوع الماضي ٣٥٧ صندوقًا . كم صندوقًا بقي معه ؟							
	أ	٣٤٣	ب	٤٣١	جـ	٢٤٥	د	٩٥٧
٤	أوجدي ناتج الجمع : ٥٢٨ + ٢٠٦ = ...							
	أ	٣٤٧	ب	٣٢٢	جـ	٢٣٢	د	٧٣٤
٥	أوجدي ناتج الطرح : ٨٣٢ – ١٢٧ = ...							
	أ	٧٥٠	ب	٩٩٥	جـ	٧٠٥	د	٩٥٩

تدريبات نافس (رياضيات) الصف الثالث الابتدائي

اسم الطالبة : .....

ظللي الإجابة الصحيحة :

١		أ	ب	جـ	د
٢		أ	ب	جـ	د
٣		أ	ب	جـ	د
٤		أ	ب	جـ	د
٥		أ	ب	جـ	د

معلمة المادة :

ساره حمدان الشهري

العمليات على الأعداد و الحس العددي (٢)								
١	اختر العملية المناسبة لتصبح الجملة العددية صحيحة : ٦٠ + ٤ = ٨ ◯ ٨							
	أ	×	ب	+	جـ	-	د	÷
٢	حدد جملة الضرب الخطأ فيما يلي :							
	أ	١٠×١=٥×٢	ب	٢×٦=٣×٤	جـ	٥×٤=١٠×٢	د	١×٥=١×١٠
٣	ما العدد الذي إذا قُسم على ٧ كان الناتج ٢ ؟							
	أ	١٦	ب	١٤	جـ	١٠	د	٥
٤	أي الجمل العددية الآتية مترابطة مع الجملة ٤٠ ÷ ٥ = ٨ ؟							
	أ	٥ + ٨ = ١٣	ب	٤٠ ـ ٥ = ٨	جـ	٨ ـ ٥ = ٣	د	٨ × ٥ = ٤٠
٥	ما العلاقة بين القسمة والطرح ؟							
	أ	طرح متكرر	ب	ضرب متكرر	جـ	جمع متكرر	د	قسمة متكررة

تدريبات نافس (رياضيات) الصف الثالث الابتدائي

اسم الطالبة : .....

ظللي الإجابة الصحيحة :

١	د	جـ	ب	أ				
٢	د	جـ	ب	أ				
٣	د	جـ	ب	أ				
٤	د	جـ	ب	أ				
٥	د	جـ	ب	أ				

معلمة المادة :

ساره حمدان الشهري

العمليات على الأعداد و الحس العددي (٣)								
١	تعمل سلمى في الأعمال التطوعية الخيرية ٢٤٥ ساعة تقريبًا كل سنة . كم ساعة تقريبًا تعمل في سنتين ؟							
	أ	٤٠٠	ب	٣٠٠	جـ	٢٠٠	د	١٠٠
٢	أُقدر ناتج الطرح باستعمال التقريب إلى أقرب مئة : ٦٤٧ - ٢٨١ = ...							
	أ	٢٦٦	ب	٢٠٠	جـ	٣٦٦	د	٣٠٠
٣	أُقدر ناتج الجمع باستعمال التقريب : ٢٣٩ + ٤٣٤ = ...							
	أ	٦٥٠	ب	٦٧٠	جـ	٧٠٠	د	٧٦٠
٤	أوجد ناتج الضرب : ٢ × ٥ × ١٢ = ...							
	أ	١٠	ب	٦٠	جـ	١٠٠	د	١٢٠
٥	تريد فاطمة شراء ٣ كتب أثمانها ٢٠ ، ١٠ ، ٣٠ ريالًا ، و تُقدر أنها ستحتاج إلى ٥٠ ريالًا من أجل ذلك ؟ فهل هذا تقدير معقول ؟ أوضح اجابتي							
	أ	نعم ، لأن ٦٠ > ٥٠	ب	لا ، لأن ٣٠ > ٥٠	جـ	لا ، لأن ٦٠ < ٥٠	د	نعم ، لأن ٣٠ > ٥٠

تدريبات نافس (رياضيات) الصف الثالث الابتدائي

اسم الطالبة : .....

ظللي الإجابة الصحيحة :

١	أ	ب	ج	د				
٢	أ	ب	ج	د				
٣	أ	ب	ج	د				
٤	أ	ب	ج	د				
٥	أ	ب	ج	د				

معلمة المادة :

ساره حمدان الشهري

الأنماط و العلاقات و الدوال								
١	إذا كان لدينا طاولتين يحيط بها ٤ كراسي ، فكم كرسيًا يمكن أن نضع حول طاولتين وضعتا جنبا إلى جنب كما يظهر في الصورة الآتية ؟ 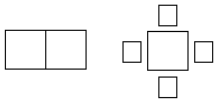							
	أ	٤	ب	٦	جـ	٨	د	١٠
٢	ما الشكل التاسع عشر في النمط الآتي : 							
	أ	□	ب	♡	جـ	△	د	○
٣	رسمت سعاد ١٦ مثلثًا و كانت تترك ثلاثة بلا تلوين ، و تلون الرابع باللون الأزرق إذا استمرت على هذا النمط ، فكم مثلثًا لونت سعاد باللون الأزرق ؟							
	أ	٤	ب	٣	جـ	٢	د	١
٤	ما القاعدة التي يتبعها النمط التالي : ٩٦ ، ٩٤ ، ٩٢ ، ٩٠							
	أ	أطرح ٤	ب	أضيف ٢	جـ	أطرح ٢	د	أضيف ٤
٥	تتناقص مساحة المثلثات المجاورة من اليمين إلى اليسار ، أوسع النمط لأجد ارتفاع المثلث التالي ؟ 							
	أ	٤ سم	ب	٣ سم	جـ	٢ سم	د	١ سم

تدريبات نافس (رياضيات) الصف الثالث الابتدائي

اسم الطالبة : .....

ظللي الإجابة الصحيحة :

١	أ	ب	جـ	د				
٢	أ	ب	جـ	د				
٣	أ	ب	جـ	د				
٤	أ	ب	جـ	د				
٥	أ	ب	جـ	د				

معلمة المادة :

ساره حمدان الشهري

البنى الجبرية و العبارات الرياضية (١)								
١	أجد ناتج الجمع ذهنيًا ، و أحدد خاصية الجمع : ٢ ٧ + ٣							
	أ	١٢ ، الإبدال	ب	١٢ ، التجميع	جـ	١٧،العنصرالمحايد	د	١٠ ، التجميع
٢	أكتب العدد المناسب في ☐ أحدد الخاصية في كل مما يأتي : ٣٤٥ + ٠ = ☐							
	أ	٠ ، الابدال	ب	٣٤٥، العنصرالمحايد	جـ	٣٤٥ ، التجميع	د	٠ ، التوزيع
٣	٣× (٤ × ٥) = ...							
	أ	٢٠	ب	٤٠	جـ	٦٠	د	٨٠
٤	ما العدد المناسب في الفراغ : ٧ × ٦ = ... × ٧							
	أ	٦	ب	٧	جـ	٣٦	د	٤٢
٥	العنصر المحايد في الضرب هو :							
	أ	٠	ب	١	جـ	٢	د	٣

تدريبات نافس (رياضيات) الصف الثالث الابتدائي

اسم الطالبة : .....

ظللي الإجابة الصحيحة :

١		أ	ب	ج	د
٢		أ	ب	ج	د
٣		أ	ب	ج	د
٤		أ	ب	ج	د
٥		أ	ب	ج	د

معلمة المادة :

ساره حمدان الشهري

البنى الجبرية و العبارات الرياضية (٢)								
١	الجملة العددية التي تستعمل التحقق من ناتج الجمع : ٣٢٧ + ٢٤٥ = ٥٧٢ هي							
	أ	٥٧٢ - ٢٤٥ = ٣٢٧	ب	٣٢٧+٢٤٥= ٥٧٢	ج	٣٢٧-٢٤٥= ٨٢	د	٥٧٢+٢٤٥= ٨١٧
٢	الضرب هو :							
	أ	طرح متكرر	ب	جمع متكرر	ج	ضرب متكرر	د	قسمة متكررة
٣	للتحقق من ناتج القسمة ٣٥ ÷ ٧ = ٥ نستعمل							
	أ	٧ × ٥ = ٣٥	ب	٧ ـ ٥ = ٢	ج	٧ + ٥ = ١٢	د	٣٥ ـ ٥ = ٣٠
٤	أي الجمل العددية التالية تنتمي إلى مجموعة الحقائق المترابطة التالية : ٥ × ٣ = ١٥ ، ٣ × ٥ = ١٥ ، ١٥ ÷ ٣ = ٥							
	أ	٣ × ١٥ = ٤٥	ب	١٥ × ١٥ = ١	ج	١٥ ÷ ١ = ١٥	د	١٥ ÷ ٥ = ٣
٥	بلغت درجة الحرارة صباح أحد الأيام ٢٥ درجة مئوية ، و بعد الظهر أصبحت ٣٨ درجة مئوية ، أجد الفرق بين درجتي الحرارة ؟							
	أ	١٠	ب	٢٣	ج	١٣	د	٦٣

تدريبات نافس (رياضيات) الصف الثالث الابتدائي

اسم الطالبة : .....

ظللي الإجابة الصحيحة :

١	١	أ	ب	جـ	د			
٢	٢	أ	ب	جـ	د			
٣	٣	أ	ب	جـ	د			
٤	٤	أ	ب	جـ	د			
٥	٥	أ	ب	جـ	د			

معلمة المادة :

ساره حمدان الشهري

الأشكال الهندسية								
١	الشكل التالي  يُسمى :							
	أ	اسطوانة	ب	مخروط	جـ	هرم رباعي	د	كرة
٢	المجسم الذي له ٦ أوجه و ٨ رؤوس و ١٢ حرف هو :							
	أ	المكعب	ب	الأسطوانة	جـ	الكرة	د	المخروط
٣	لدى محمد مضلعًا خماسيًا جميع أضلاعه متساوية الطول ، إذا كان طول ضلعه ١٠ سنتمتر ، فإن محيطه يساوي :							
	أ	٢٠سم	ب	٣٠سم	جـ	٤٠سم	د	٥٠سم
٤	الشكل الذي له عدد غير محدد من محاور التماثل هو :							
	أ	الدائرة	ب	المربع	جـ	المستطيل	د	شبه المنحرف
٥	رسمت وفاء مضلعًا له ٦ أضلاع و ٦ زوايا ، فما اسم هذا المضلع ؟							
	أ	رباعي	ب	خماسي	جـ	سداسي	د	ثماني

تدريبات نافس (رياضيات) الصف الثالث الابتدائي

اسم الطالبة : .....

ظللي الإجابة الصحيحة :

١		أ		ب		جـ		د
٢		أ		ب		جـ		د
٣		أ		ب		جـ		د
٤		أ		ب		جـ		د
٥		أ		ب		جـ		د

معلمة المادة :

ساره حمدان الشهري

القياس و وحداته (١)								
١	محيط المثلث المجاور يُساوي : 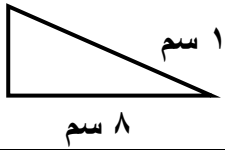							
	أ	١٦ سم	ب	١٨ سم	جـ	٢٠ سم	د	٢٤ سم
٢	كم تصبح مساحة الشكل المظلل إذا أضفنا إليه ٣ وحدات مربعة : 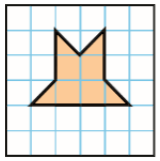							
	أ	٦ وحدات مربعة	ب	٧ وحدات مربعة	جـ	٨ وحدات مربعة	د	٩ وحدات مربعة
٣	محيط الشكل التالي يساوي : 							
	أ	٤ وحدات مربعة	ب	٦ وحدة مربعة	جـ	٨ وحدة مربعة	د	١٠ وحدة مربعة
٤	مساحة مستطيل طوله ٥م و عرضه ٢ م تُساوي :							
	أ	٥ متر مربع	ب	٧ متر مربع	جـ	١٠ متر مربع	د	١٢ متر مربع
٥	أوجدي محيط مربع طول ضلعه ١ سم ؟ 							
	أ	١ سم	ب	٢سم	جـ	٣ سم	د	٤ سم

تدريبات نافس (رياضيات) الصف الثالث الابتدائي

اسم الطالبة : .....

ظللي الإجابة الصحيحة :

١	١	أ	ب	ج	د			
٢	٢	أ	ب	ج	د			
٣	٣	أ	ب	ج	د			
٤	٤	أ	ب	ج	د			
٥	٥	أ	ب	ج	د			

معلمة المادة :

ساره حمدان الشهري

القياس و وحداته (٢)								
١	أفضل تقدير لطول نملة هو :							
	أ	٣ م	ب	٣ ملم	جـ	٣ سم	د	٣ كلم
٢	الوحدة المترية التي تستعمل لقياس الكتلة هي :							
	أ	سنتمتر	ب	اللتر	جـ	الكيلو جرام	د	الكيلو متر
٣	٥ لتر = ... مللتر							
	أ	٥٠	ب	٥٠٠	جـ	٥٠٠٠	د	٥٠٠٠٠
٤	كتلة حبة التفاح :							
	أ	٢٠٠ جرام	ب	١٠ جرام	جـ	٧ كجم	د	٦ كجم
٥	أختار التقدير الأفضل لقياس سعة كوب من الماء :							
	أ	٩٠٠ مل	ب	٩ ل	جـ	٢ ل	د	٢٥٠ مل

تدريبات نافس (رياضيات) الصف الثالث الابتدائي

اسم الطالبة : .....

ظللي الإجابة الصحيحة :

١		أ		ب		جـ		د
٢		أ		ب		جـ		د
٣		أ		ب		جـ		د
٤		أ		ب		جـ		د
٥		أ		ب		جـ		د

معلمة المادة :

ساره حمدان الشهري

القياس و وحداته (٣)

١	ما هي فئة النقود المناسبة لشراء قلم رصاص؟							
	أ		ب		جـ		د	
٢	أراد سالم شراء هدية لأمه بسعر ٢١٧ ريالًا أي من القيم النقدية التالية مناسبة لشراء الهدية ؟							
	أ		ب		جـ		د	
٣	ذهبت أمل و هند إلى متجر الألعاب لشراء لعبة سعرها ٤٨٠ ريالًا . أي مما يلي يمثل المبلغ الذي ينقصهما لشراء هذه اللعبة ؟							
								
		هند أمل						
	أ	٨٣	ب	٦٧	جـ	٥٢	د	٤٨
٤	حددي المبلغ الأكبر من المبالغ النقدية التالية :							
	أ		ب		جـ		د	

٥

اتفق الأصدقاء الثلاثة احمد وعلي وفيصل على ان يساعدوا أحد الفقراء ، فدفع كل منهم مبلغًا من المال ، حسب الشكل ادناه . أي مما يلي يمثل مجموع مادفعوا ؟

أحمد	علي	فيصل
		

أ	٥٦٠	ب	٦٨٠	جـ	٧٣٠	د	٧٤٠

٥

القياس و وحداته (٤)

١	إذا كان عقرب الدقائق يشير إلى الرقم ٥ ، فإن عدد الدقائق التي يشير إليها تساوي :							
	أ	٣٥ دقيقة	ب	١٥ دقيقة	جـ	٢٥ دقيقة	د	٥ دقائق
٢	أحدد الساعة التي تشير إلى أن الوق هو الثامنة و النصف :							
	أ		ب		جـ		د	
٣	أكتبي الزمن الذي تُشير إليه ساعة العقارب ؟							
	أ	٣:٥٠	ب	١٠:١٠	جـ	١٠:٠٣	د	٣:١٠
٤	إذا كانت ساعة الحائط تشير إلى الوقت ٥:٣٧ ، فكم سيكون الوقت يعد مرور ربع ساعة ؟							
	أ	٥:٥٢	ب	٥:٢٢	جـ	٥:٠٠	د	٤:٥٢
٥	لعبت خديجة ساعة واحدة ، ثم نامت ساعتين و استيقظت عند الساعة ٤:٠٠ مساء ، متى بدأت خديجة اللعب ؟							
	أ	١٢:٠٠ ظهرًا	ب	١:٠٠ مساءً	جـ	٢:٠٠ مساءً	د	٣:٠٠ مساءً

تدريبات نافس (رياضيات) الصف الثالث الابتدائي

اسم الطالبة : .....

ظللي الإجابة الصحيحة :

١	أ ب جـ د
٢	أ ب جـ د
٣	أ ب جـ د
٤	أ ب جـ د
٥	أ ب جـ د

معلمة المادة :

ساره حمدان الشهري

تدريبات نافس (رياضيات) الصف الثالث الابتدائي

اسم الطالبة : .....

ظللي الإجابة الصحيحة :

١	أ	ب	جـ	د
٢	أ	ب	جـ	د
٣	أ	ب	جـ	د
٤	أ	ب	جـ	د
٥	أ	ب	جـ	د

معلمة المادة :

ساره حمدان الشهري

الإحصاء و التمثيلات البيانية

١ طريقة جمع البيانات عن طريق طرح أسئلة تُسمى :

أ المسح | ب التمثيل بالرموز | جـ التمثيل بالأعمدة | د لوحة الاشارات

٢ سجل محمد ١٠ أهداف في مباراة كرة السلة ، فكم كرة يجب رسمها مقابل اسم محمد في التمثيل بالرموز أدناه ؟

الأهداف المسجلة	
محمود	⚽⚽
خالد	⚽⚽⚽
محمد	
المفتاح ⚽ = هدفين	

أ ٣ | ب ٤ | جـ ٥ | د ٦

٣ ما الذي يمثله التمثيل بالرموز المجاور :

ألوان الأزهار	
أحمر	✿ ✿ ✿ ✿ ✿
أصفر	✿ ✿ ✿ ✿
أبيض	✿ ✿
بنفسجي	✿ ✿ ✿
المفتاح :	✿ = زهرتان

أ ألوان الأزهار | ب أنواع الأزهار | جـ الأزهار المفضلة | د الألوان المفضلة

٤	**تعرض لوحة الإشارات المجاورة الأوقات التي تصل فيها هند إلى المدرسة كل صباح على مدى ٤ أسابيع .** **أستعمل هذه اللوحة لتحديد عدد مرات وصولها الساعة ٧:٠٠ .** وقت وصول هند للمدرسة صباحًا الوقت | الإشارات | عدد الأيام ٦:٠٠ | | ٢ ٦:٣٠ | | ٥ ٦:٤٥ | | ١٠ ٧:٠٠ | | ٤ أ ٢ ب ٤ جـ ٥ د ١٠
٥	**بالاستفادة من التمثيل بالأعمدة المجاور و الذي يبين الفصل المفضل لمجموعة من الأشخاص** **ما مجموع الأشخاص الذين يفضلون** **فصل الصيف و الربيع و الخريف ؟** 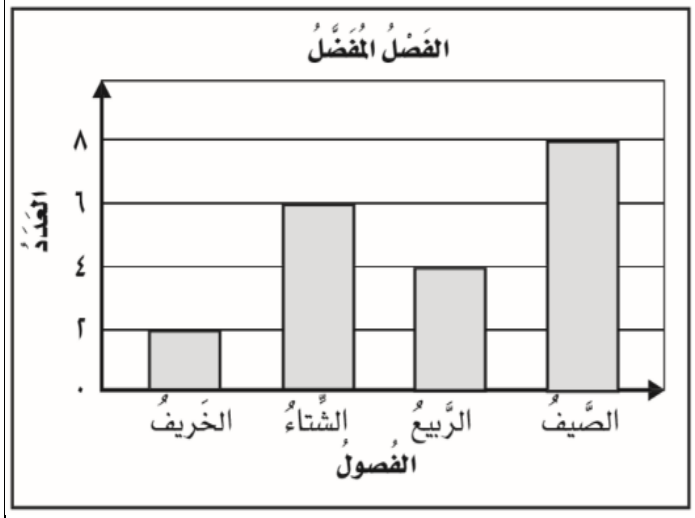 أ ٦ ب ٩ جـ ١٢ د ١٤

تدريبات نافس (رياضيات) الصف الثالث الابتدائي

اسم الطالبة : .....

ظللي الإجابة الصحيحة :

١	أ ب ج د
٢	أ ب ج د
٣	أ ب ج د
٤	أ ب ج د
٥	أ ب ج د

معلمة المادة :

ساره حمدان الشهري